Thème III – Habiter les littoraux – Ch 2 – Les littoraux touristiques

Étude de cas : Bora Bora, une destination touristique de rêve

I – Bora Bora, île polynésienne, destination touristique lointaine et rêvée

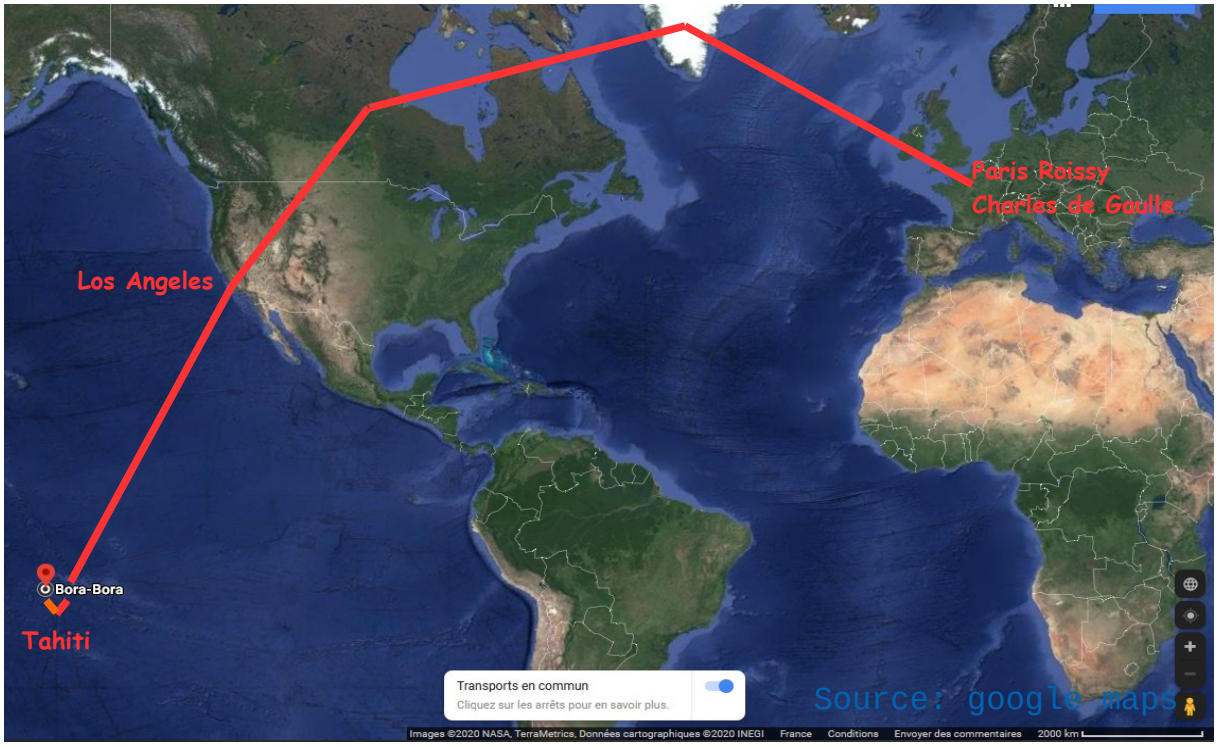

Doc 1 – Le trajet par avion de Paris à Bora Bora, source : https://www.google.fr/maps

Décollage de l'aéroport de Paris-Roissy Charles de Gaulle, direction Los Angeles, mégapole californienne. Après un vol d'environ 12h, une escale (arrêt, stop) d'une heure est prévue à Los Angeles. Il faut ensuite près de 9h pour arriver à l'aéroport de Tahiti-Faa'a en Polynésie française et attendre au moins une heure à l'aéroport de Tahiti pour prendre un vol vers Bora Bora. Ce vol dure environ 50mn. Attention, pense à rajouter 3h de transport routier (ou par voie ferroviaire) entre Cosne-sur-Loire et l'aéroport de Roissy-Charles de Gaulle.

Calcule le temps de transport entre Cosne-sur-Loire et l'île Bora Bora :

Cosne-Paris : .....
Paris-Los Angeles : + ...
Escale à Los Angeles : + ...
Los Angeles-Tahiti (Papeete) : + ...
Escale à Tahiti : + ...
Tahiti-Bora Bora : + ...
Temps de vol avec les escales : = ... heures et ..... minutes

Temps de vol, sans escale : = ... heures et ..... minutes

Temps de transport Cosne-Bora Bora : ... heures et ..... minutes, soit : .. jour, ... heures et ... minutes.

Pour prendre un vol international, tu dois être à l'aéroport 3h avant l'embarquement (enregistrement des passagers et des bagages, contrôles douaniers). Alors, le temps nécessaire pour joindre Cosne-sur-Loire et Bora Bora est en réalité de : ..... jour, ... heures et ..... minutes.

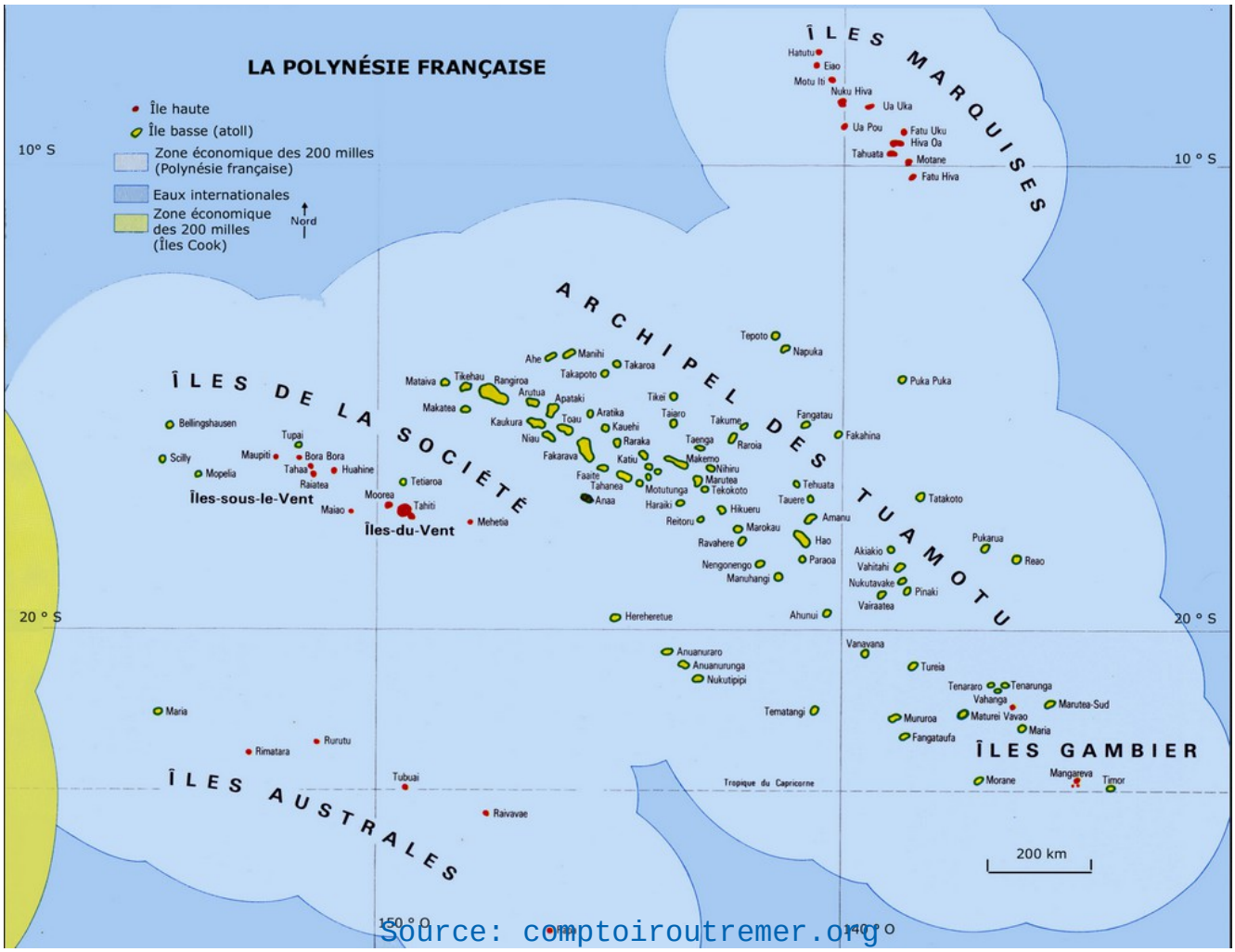

Doc 2 – Localisation de Tahiti et de Bora Bora en Polynésie française,
source : http://www.comptoiroutremer.org/wp-content/uploads/2014/06/carte_polynesie_francaise.jpg

Mesure sur la carte, la distance entre la "pointe" Nord-Ouest de Tahiti, où se situe l'aéroport de Tahiti Faa'a et l'île de Bora Bora.

.....

Mesure l'échelle donnée en bas à droite de la carte : ..,.. cm = 200km. J'en déduis que 1 cm sur la carte = 200 divisé par ...,... = ...,.... km sur le terrain.

Sachant que 1 cm sur la carte = ... km sur le terrain, la distance entre Tahiti et Bora Bora est de :

..... cm x (échelle) .....,..... km = ...,..... km, soit, en arrondissant à la dizaine supérieure : ..... km.

Doc 3 – Image satellite de Bora Bora,
source : Google maps
Regarde attentivement cette image et fais-en un croquis.

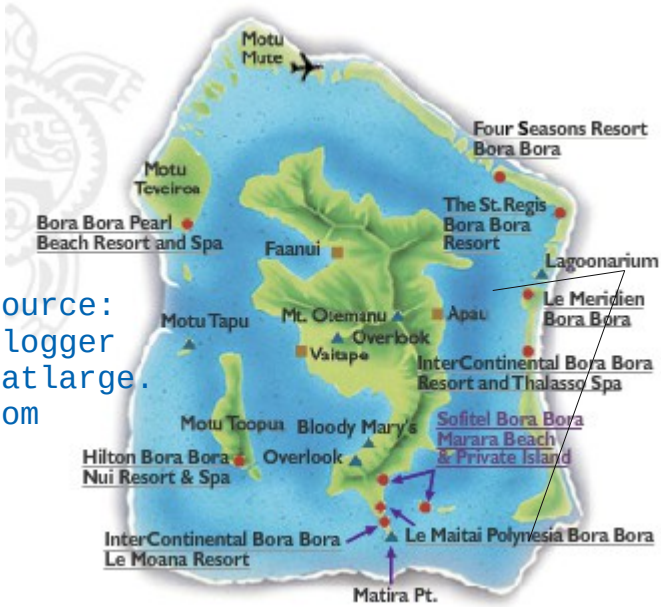

Source: blogger tatlarge.com



Doc 4 – Activités liées au tourisme à Bora Bora, Source : https://www.bloggeratlarge.com/wp-content/uploads/Bora-Bora-map.jpg
L'angle de vue de la photo aérienne, doc 5, est indiqué.

Doc 5 – Vue aérienne sur les hôtels *InterContinental Resort & Thalasso* et *Le Méridien*, cliché : ©M.-P. Cerveau
L'angle de vue de la photo aérienne est indiqué.

Sur le doc 4, repère les deux hôtels ***Le Méridien*** et l'***InterContinental Resort & Thalasso Spa***. Entoure leur nom au stylo rouge. Ces deux hôtels se situent sur le *motu* (îlot) *Piti Aau*, long de 10 km.

Doc 6 – Des services hôteliers diversifiés dans un décor de rêve

Ces deux hôtels ont une très belle vue sur le mont *Otemanu*, haut de 725 mètres. Une navette maritime privée conduit les touristes de l'aéroport à l'hôtel. Chaque hôtel a sa plage privée, propose une cuisine raffinée et un hébergement en bungalows jardin ou sur pilotis. M.-P. Cerveau, géographe, juin 2020

Doc 5 et 6 - Où logent les touristes ?

.....

Doc 7 – Un séjour inoubliable pour des touristes choyés

Repas aux requins au Lagoonarium et jardin de corail de Bora Bora, Cliché : ©M.-P. Cerveau

Promenade en bateau à fond de verre, source : https://www.civitatis.com/fr/bora-bora

Docs 6 et 7 - Pourquoi peux-tu dire que ces hôtels rendent le séjour à Bora Bora inoubliable ?

.....

.....

.....

.....